Il n'est pas nécessaire d'imprimer cette feuille. Il faut juste regarder les docs et répondre aux questions.

Chapitre d'histoire : La Guerre froide (1947-1991)

Fiche documents n°1

Doc. 1 : Churchill et le rideau de fer

De Stettin, sur la Baltique, à Trieste, sur l'Adriatique, un rideau de fer est descendu à travers le continent. Derrière cette ligne se trouvent les capitales de tous les pays de l'Europe orientale : Varsovie, Prague, Berlin, Vienne, Budapest, Belgrade, Bucarest et Sofia. Toutes ces villes célèbres, toutes ces nations se trouvent dans la sphère soviétique, et toutes sont soumises, non seulement à l'influence, mais encore au contrôle très étendu et constamment croissant de Moscou.

Les communistes, qui étaient très faibles dans tous ces pays de l'Est européen, ont été investis de pouvoirs qui ne correspondent nullement à leur importance numérique, et cherchent partout à exercer un contrôle totalitaire.

Discours de Winston Churchill à l'université de Fulton (Etats-Unis), le 5 mars 1946

Doc. 2 : Carte de l'Europe en 1945

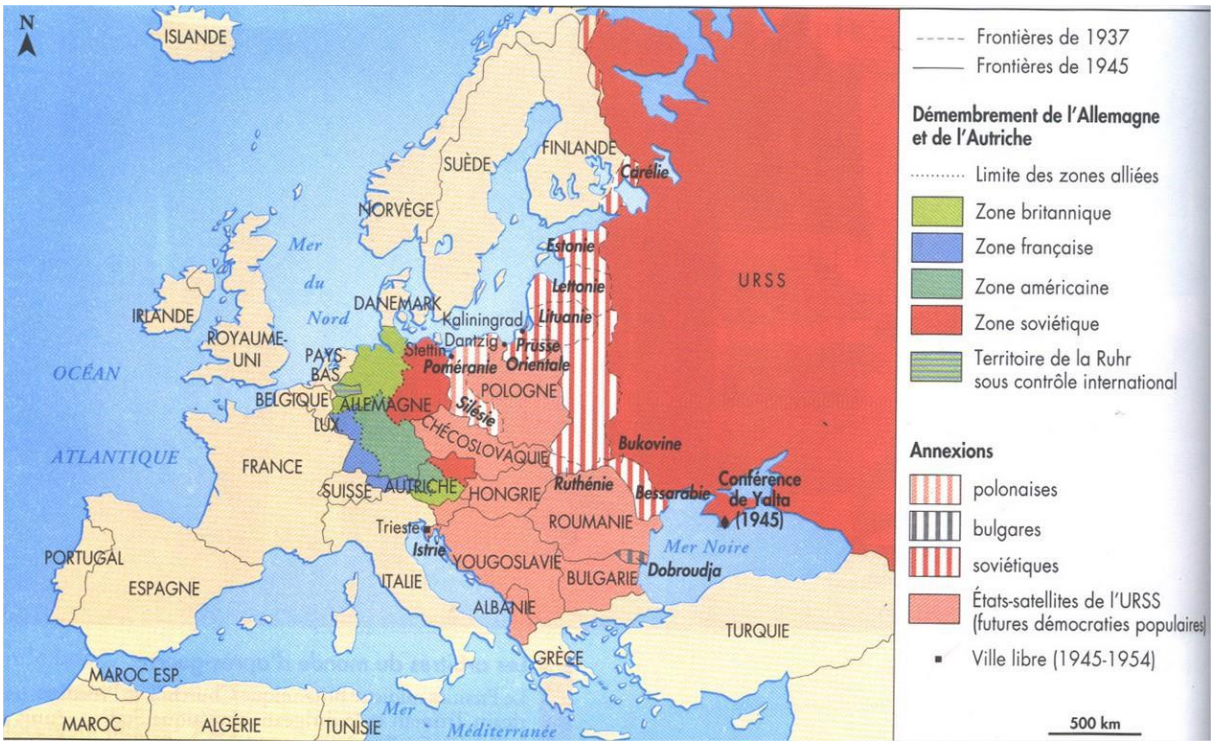

Doc. 3 : Carte de l'Allemagne en 1945 à 1949

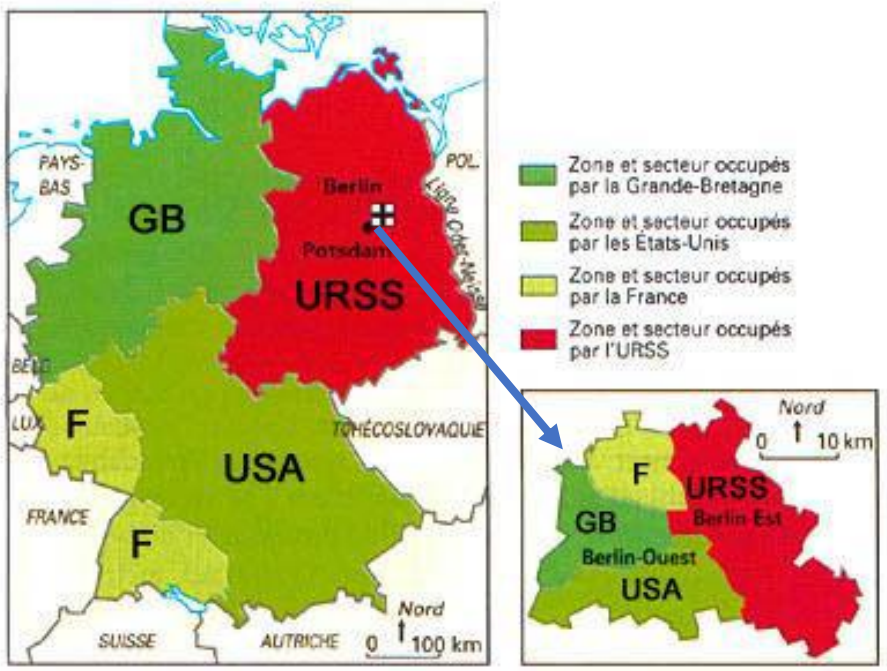

Doc. 4 : Le monde au temps de la Guerre froide en 1947.

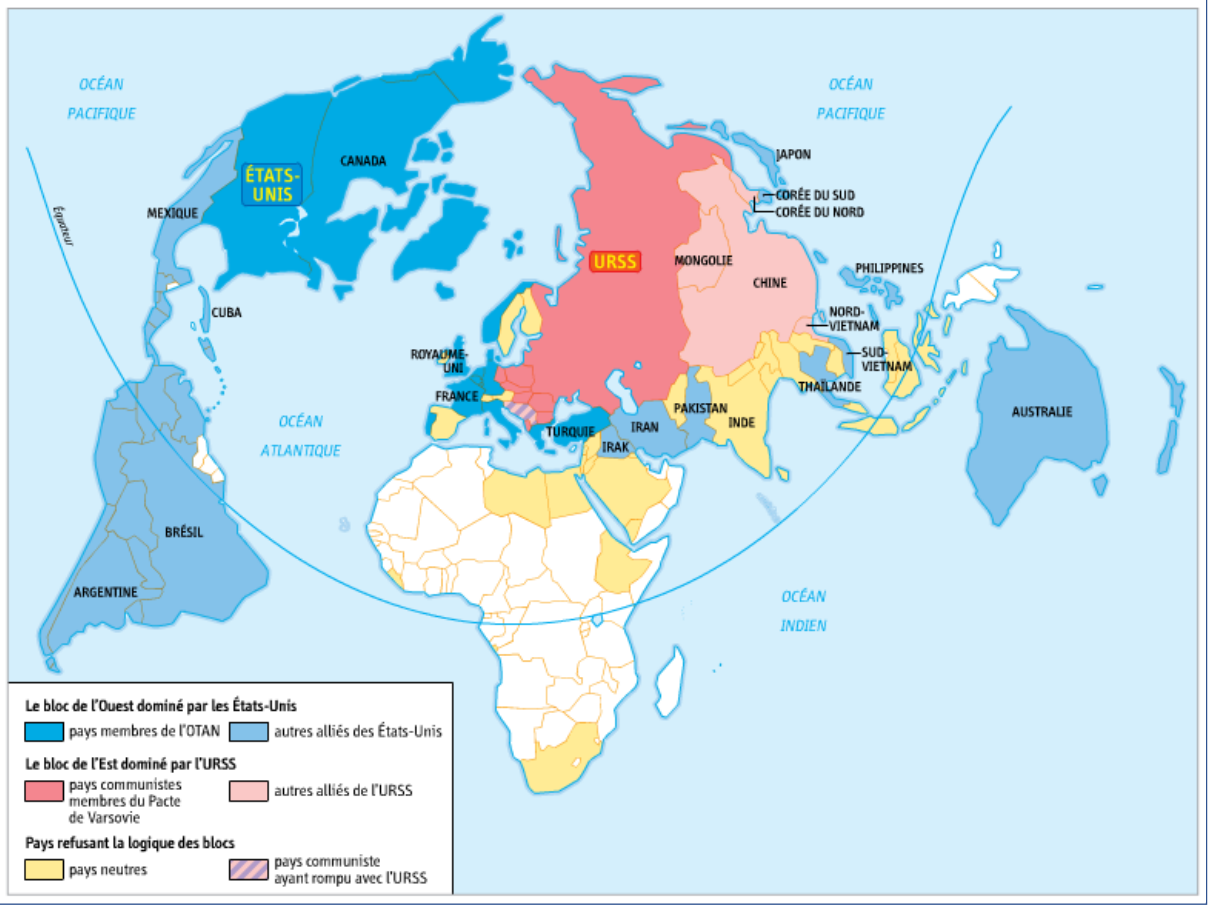

Q.1 : Doc. 1 : Qu'est-ce qui est « tombé sur l'Europe » selon Churchill ? Selon lui, que font les Soviétiques à l'est de l'Europe ?

Q.2 : Doc. 2 et 3 : Explique ce qui arrive à l'Allemagne et Berlin à partir de 1945. Quelle est la particularité de la situation de la partie ouest de Berlin ?

Q.3 : Doc. 2 : Cite trois territoires annexés par l'URSS. Cite trois Etats-satellites de l'URSS.

Q.4 : Doc. 4 : Décris les deux blocs en quelques lignes. Qui est allié des Américains ? Comment s'appelle l'alliance américaine ? Qui est allié de l'URSS ?

Q.5 : Doc. 5 : Cite quelques Etats qui refusent d'appartenir à un camp. De quel type d'Etats s'agit-il ?